نام و نام خانوادگی:	جمهوری اسلامی ایران اداره ی کل آموزش و پرورش شهر تهران اداره ی آموزش و پرورش شهر تهران منطقه ۵ تهران پیش دبستان و دبستان دخترانه پرسش ارزشیابی **پایانی نوبت دوم** سال تحصیلی **۱۴۰۵**	نام درس: ریاضی نام دبیر: خانم منتظری تاریخ امتحان: ۱۴۰۵ ساعت امتحان: صبح/ عصر مدت امتحان : ۶۰ دقیقه
مقطع: چهارم		
تعداد صفحه سؤال: ۲ صفحه		

ردیف	سؤالات	بارم
۱	گزینه صحیح را انتخاب کنید. • ارزش بزرگترین رقم در عدد ۲۳۵۷۸۰۵۱۵ کدام است؟ الف) صدگان میلیون ☐ ب) صدگان هزار ☐ ج) دهگان هزار ☐ د) دهگان میلیون ☐ • کسر مساوی $\frac{۱۰}{۲۵}$ برابر با کدام گزینه است؟ الف) $\frac{۱}{۵}$ ☐ ب) $\frac{۲}{۵}$ ☐ ج) $\frac{۲۰}{۲۵}$ ☐ د) $\frac{۵}{۱۵}$ ☐ • در یک تقسیم، مقسوم علیه عدد ۸ است. باقی مانده کدام گزینه نمی تواند باشد؟ الف) ۸ ☐ ب) ۷ ☐ ج) ۶ ☐ د) صفر ☐ • کدام یک از نمودارهای زیر برای بررسی تغییرات داده ها استفاده میشود؟ الف) نمودار دایره ای ☐ ب) نمودار خط شکسته ☐ ج) نمودار ستونی ☐ د) میله ای ☐	۱
۲	جاهای خالی را با عبارات مناسب پر کنید. • در شکل زیر احتمال انتخاب رنگ سفید ..... است. 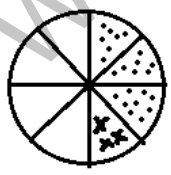 • ۱۴۵۰ ساعت به طور تقریبی برابر با ..... روز است. • هر چهارضلعی که فقط دو ضلع موازی داشته باشد، ..... نام دارد.	۱

www.amoozeshmelli.com

۳	با استفاده از اعداد اعشاری، جمع یا تفریق مناسب بنویسید 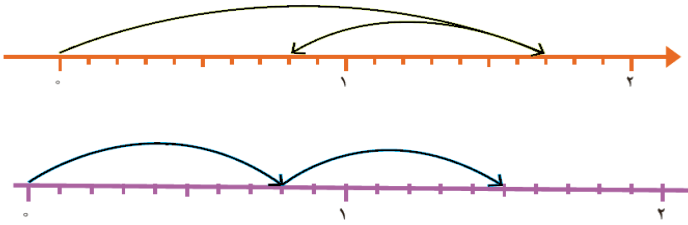 	۲
۴	با توجه به ضرب نوشته شده در هر شکل، ابتدا رنگ آمیزی کنید و سپس جواب ضرب را بنویسید. 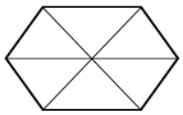 $۴ \times \frac{۱}{۶} = __$ 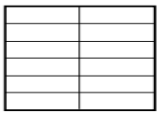 $۳ \times \frac{۳}{۱۲} = __$	۲
۵	مساحت قسمت رنگی را حساب کنید. 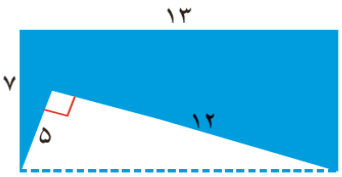 	۲
۶	محیط شکل زیر را به دست آورید. 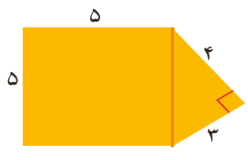 	۱
۷	قطار تهران قم در ساعت ۸ :۲۵′ از تهران حرکت کرد و در ساعت ۱۰:۱۵′ به قم رسید. زمان سفر در این قطار چه مدت بوده است؟	۱

www.amoozeshmelli.com

خیلی خوب	خوب	قابل قبول	نیازمند تلاش بیشتر
ارزشیابی توصیفی :			

اداره ی کل آموزش و پرورش شهر تهران
اداره ی آموزش و پرورش شهر تهران منطقه ۵ تهران
پیش دبستان و دبستان غیر دولتی دخترانه نیسشر
کلید سؤالات ارزشیابی پایانی نوبت دوم سال تحصیلی ۱۴۰۵

نام درس: ریاضی چهارم
نام دبیر: سرکار خانم منتظری
تاریخ امتحان۱۴۰۵
ساعت امتحان: صبح/ عصر
مدت امتحان: ۶۰ دقیقه

ردیف	راهنمای تصحیح	محل مهر یا امضاء مدیر
۱	ج ب الف ب	
۲	مساوی- ۶۰ - ذوزنقه	
۳	۱/۷ – ۰/۹ = ۰/۸ ۰/۸ + ۰/۷ = ۱/۵	
۴	 $۳ \times \frac{۳}{۱۲} = \frac{۹}{۱۲}$ 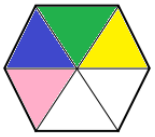 $۴ \times \frac{۱}{۶} = \frac{۴}{۶}$	
۵	۷ × ۱۳ = ۹۱ ۵ × ۱۲ = ۲÷ ۳۰ ۹۱ – ۳۰ = ۶۱	
۶	۵ + ۵ + ۵ + ۴ + ۳ = ۲۲	
۷	۱ ساعت و ۵۰ دقیقه	
نام و نام خانوادگی مصحح :	**امضاء:**	

www.amoozeshmelli.com