نام و نام خانوادگی:	جمهوری اسلامی ایران اداره ی کل آموزش و پرورش شهر تهران اداره ی آموزش و پرورش شهر تهران منطقه 4 تهران دبستان غیردولتی دخترانه سرای دانش واحد رسالت جمع بندی میان ترم نوبت اول سال تحصیلی 1405-1404 www.sarayedanesh.com 021-2936	نام درس: نام دبیر: خانم کاظمی نسب تاریخ امتحان: 1404/08/24 ساعت امتحان: 00 : 08 صبح/ عصر مدت امتحان : 90 دقیقه
مقطع و رشته:		
نام پدر:		
شماره داوطلب:		
تعداد صفحه سؤال: 2 صفحه		

نمره به عدد: نمره به حروف:	نمره تجدید نظر به عدد: نمره به حروف:	محل مهر و امضاء مدیر
نام دبیر:خانم کاظمی نسب ، تاریخ و امضاء: 24 آبان	نام دبیر: خانم کاظمی نسب ، تاریخ و امضاء: 24 آبان	

ردیف	سؤالات	بارم
1	دخترم ، با توجه به جملات زیر درستی یا نادرست بودن آنها را مشخص کن . الف) عدد شانزده میلیون و ششصد و بیست هزار و یک ، عددی 6 رقمی است . (ص / غ) ب) در همه اعداد ، اولین رقم از سمت راست ، کمترین ارزش مکانی را دارد . (ص / غ) ج) اگر دو کسر صورت برابر داشته باشند ، کسری بزرگتر است که مخرجش بزرگتر باشد . (ص / غ) د) اگر کسری ، صورت و مخرج یکسان داشته باشد برابر با یک واحد کامل است . (ص / غ)	2 نمره
2	دختر من ، جمعیت ایران بر اساس گزارش های اخیر مرکز آمار ، در سال 1404 حدود **86562174** نفر است. الف) برای این عدد جدول ارزش مکانی رسم کن . ب) این عدد را به حروف بنویس : ..... ج) این عدد چند رقمی است ؟ د) کوچکترین رقم در جایگاه ..... و بزرگترین مرتبه برای عدد ..... است .	2 نمره
3	عزیزم ، جاهای خالی را کامل کن . الف) هفتاد و چهار تا ده هزارتایی برابر است با ..... هزار یعنی عدد ..... ب) سیصد و پنجاه تا هزار تا برابر است با ..... هزار یعنی عدد ..... ج) 2000 تا دسته 700 تایی برابر است با	1.5 نمره
4	قشنگم ، الگوهای عددی زیر را کامل کن. الف) 400000 ، 500000 ، 600000 ، ..... ، ..... ، 900000 ،..... ب) 83000، 86000 ، 89000 ، ..... ، ..... ،	1.5 نمره

www.amoozeshmelli.com

5	چه کسری از شکل های زیر رنگ شده است ؟ 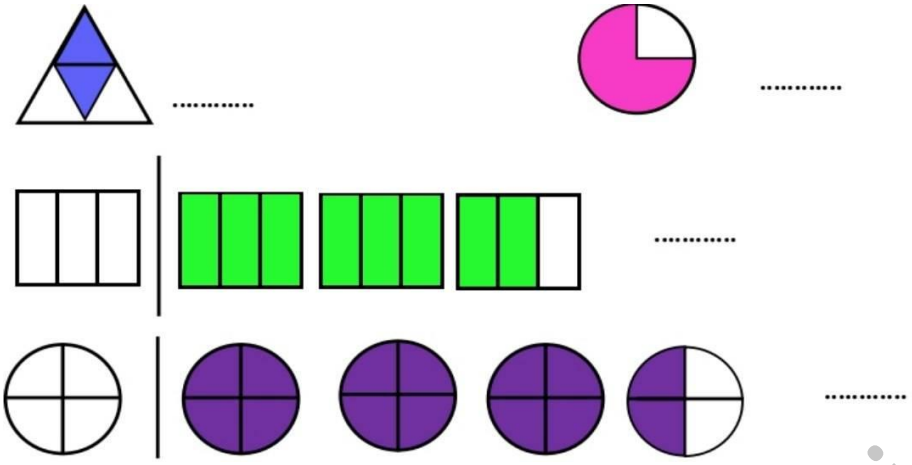	**2 نمره**
6	زیبای من ، به دلخواه خودت برای یکی از عدد های مخلوط زیر محور رسم کن و برای دیگری شکل بکش. $1\frac{3}{4} \Longrightarrow$ $3\frac{1}{2} \Longrightarrow$	**2 نمره**
7	گلم ، کسرها را با استفاده از کسرهای مساوی با هم مقایسه کن. $\frac{\dots}{\dots} = \frac{1}{3} \bigcirc \frac{5}{9}$ $\quad$ $\frac{\dots}{\dots} = \frac{4}{11} \bigcirc \frac{12}{33}$	**2 نمره**
8	دخترکم ، حاصل جمع و تفریق های زیر را به دست آورید. $\frac{7}{18} - \frac{1}{9} =$ $\quad$ $\frac{4}{12} + \frac{3}{4} =$ $\frac{4}{5} - \frac{2}{3} =$	**2.5 نمره**
9	اگر 15 نارنگی در سبد میوه مریم باشد و برادرش 7 نارنگی را از او بگیرد ، مریم چه کسری از نارنگی ها را به برادرش داده است ؟ چه کسری از نارنگی ها هنوز در سبد میوه مریم باقی مانده است ؟	**1.5 نمره**

www.amoozeshmelli.com

10	عزیزدلم ، جمع و تفریق های زیر را روی شکل نشان بده. $\frac{1}{2}-\frac{1}{5}=$ $\frac{1}{8}+\frac{2}{4}=$	**2.5** **نمره**
11	و اما سوال آخر ، دلبندم کسر زیر را تا حد امکان ساده کن. $\frac{18}{24}=$	**1** **نمره**

www.amoozeshmelli.com

اداره ی کل آموزش و پرورش شهر تهران

اداره ی آموزش و پرورش شهر تهران منطقه 4 تهران

دبستان غیر دولتی دخترانه سرای دانش واحد رسالت

کلید سؤالات میان ترم نوبت اول سال تحصیلی 1404-1403

www.sarayedanesh.com

نام درس:

نام دبیر:

تاریخ امتحان: ...../...../1404

ساعت امتحان: ..... صبح/ عصر

مدت امتحان: ..... دقیقه

ردیف	راهنمای تصحیح	محل مهر یا امضاء مدیر
1		
2		
3		
4		
5		
6		
7		
8		
9		
10		
11		
12		
13		
14		
15		
16		
17		
18		
19		
20		
21		

www.amoozeshmelli.com

جمع بارم :20نمره	نام و نام خانوادگی مصحح :	امضاء:

www.amoozeshmelli.com

نام و نام خانوادگی: ..... مقطع و رشته: نام پدر: ..... شماره داوطلب: ..... تعداد صفحه سؤال: 2 صفحه	جمهوری اسلامی ایران اداره ی کل آموزش و پرورش شهر تهران اداره ی آموزش و پرورش شهر تهران منطقه 4 تهران دبستان غیردولتی دخترانه سرای دانش واحد رسالت جمع بندی میان ترم نوبت اول سال تحصیلی 1405-1404 www.sarayedanesh.com 021-2936	نام درس: نام دبیر: خانم کاظمی نسب تاریخ امتحان: 1404/08/24 ساعت امتحان: 00 : 08 صبح/ عصر مدت امتحان : 90 دقیقه

نمره به عدد: نمره به حروف:	نمره تجدید نظر به عدد: نمره به حروف:	محل مهر و امضاء مدیر
نام دبیر:خانم کاظمی نسب ، تاریخ و امضاء: 24 آبان	نام دبیر: خانم کاظمی نسب ، تاریخ و امضاء: 24 آبان	

ردیف	سؤالات	بارم
1	دخترم ، با توجه به جملات زیر درستی یا نادرست بودن آنها را مشخص کن . الف) عدد شانزده میلیون و ششصد و بیست هزار و یک ، عددی 6 رقمی است . (ص / غ) ۷ رقمی ب) در همه اعداد ، اولین رقم از سمت راست ، کمترین ارزش مکانی را دارد . (ص / غ) ج) اگر دو کسر صورت برابر داشته باشند ، کسری بزرگتر است که مخرجش بزرگتر باشد . (ص / غ) کوچکتر د) اگر کسری ، صورت و مخرج یکسان داشته باشد برابر با یک واحد کامل است . (ص / غ)	2 نمره
2	دختر من ، جمعیت ایران بر اساس گزارش های اخیر مرکز آمار ، در سال 1404 حدود **86562174** نفر است. الف) برای این عدد جدول ارزش مکانی رسم کن . میلیون / هزارگان مر د د مر د د مر د د ۸ ۶ ۵ ۶ ۲ ۱ ۷ ۴ ب) این عدد را به حروف بنویس : هشتاد و شش میلیون و پانصد و شصت و دو هزار و صد و هفتاد و چهار ج) این عدد چند رقمی است ؟ ۸ رقمی د) کوچکترین رقم در جایگاه صدگان و بزرگترین مرتبه برای عدد ۸ است .	2 نمره
3	عزیزم ، جاهای خالی را کامل کن . الف) هفتاد و چهار تا ده هزارتایی برابر است با ۷۴۰ هزار یعنی عدد ۷۴۰۰۰۰ ب) سیصد و پنجاه تا هزار تا برابر است با ۳۵۰ هزار یعنی عدد ۳۵۰۰۰۰ ج) 2000 تا دسته 700 تایی برابر است با ۱۴۰۰۰۰۰	1.5 نمره
4	قشنگم ، الگوهای عددی زیر را کامل کن. الف) 400000 ، 500000 ، 600000 ، ۷۰۰۰۰۰ ، ۸۰۰۰۰۰ ، 900000 ، ۱۰۰۰۰۰۰ ب) 83000، 86000 ، 89000 ، ۹۲۰۰۰ ، ۹۵۰۰۰ ، ۹۸۰۰۰	1.5 نمره

www.amoozeshmelli.com

Scanned with CamScanner

5	چه کسری از شکل های زیر رنگ شده است ؟ 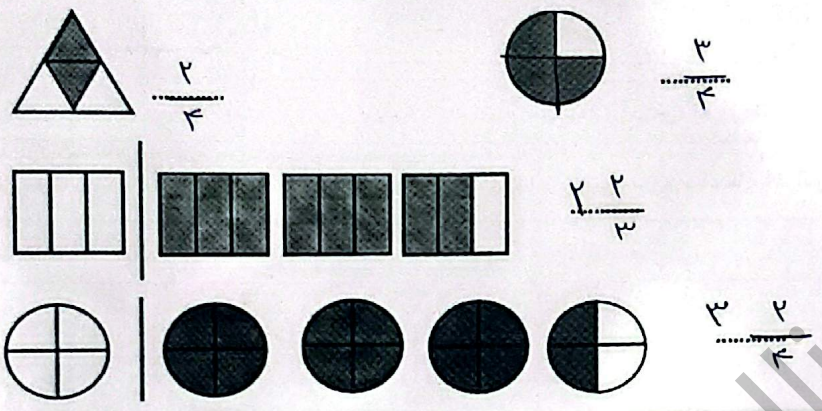 $\frac{۲}{۴}$ $\frac{۳}{۴}$ $۲\frac{۲}{۳}$ $۳\frac{۲}{۴}$	2 نمره
6	زیبای من ، به دلخواه خودت برای یکی از عدد های مخلوط زیر محور رسم کن و برای دیگری شکل بکش. $1\frac{3}{4} \Longrightarrow$  $3\frac{1}{2} \Longrightarrow$ 	2 نمره
7	گلم ، کسرها را با استفاده از کسرهای مساوی با هم مقایسه کن. $\frac{۱۰}{۰۹} = \frac{۳\times1}{۳\times3} < \frac{5}{9}$ $\frac{۱۲}{۲۳} = \frac{۳\times4}{۳\times11} = \frac{12}{33}$	2 نمره
8	دخترکم ، حاصل جمع و تفریق های زیر را به دست آورید. $\frac{7}{18} - \frac{1\times۲}{9\times۲} = \frac{۷}{۱۸} - \frac{۲}{۱۸} = \boxed{\frac{۵}{۱۸}}$ $\frac{4}{12} + \frac{3\times۳}{4\times۳} = \frac{۴}{۱۲} + \frac{۹}{۱۲} = \boxed{\frac{۱۳}{۱۲}}$ $\frac{4\times۳}{5\times۳} - \frac{2\times۵}{3\times۵} = \frac{۱۲}{۱۵} - \frac{۱۰}{۱۵} = \boxed{\frac{۲}{۱۵}}$	2.5 نمره
9	اگر 15 نارنگی در سبد میوه مریم باشد و برادرش 7 نارنگی را از او بگیرد ، مریم چه کسری از نارنگی ها را به برادرش داده است ؟ $\frac{۷}{۱۵}$ چه کسری از نارنگی ها هنوز در سبد میوه مریم باقی مانده است ؟ $\frac{۱۵}{۱۵} - \frac{۷}{۱۵} = \boxed{\frac{۸}{۱۵}}$	1.5 نمره

www.amoozeshmelli.com

Scanned with CamScanner

2.5 نمره	عزیزدلم ، جمع و تفریق های زیر را روی شکل نشان بده. $\frac{1}{8}+\frac{2\times2}{4\times2}=\frac{1}{8}+\frac{4}{8}=\frac{5}{8}$ 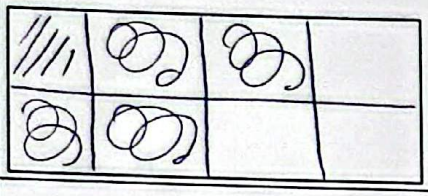 $\frac{1\times3}{2\times5}-\frac{1\times2}{5\times2}=\frac{3}{10}-\frac{2}{10}=\frac{3}{10}$ 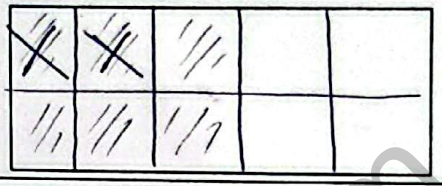	10
1 نمره	و اما سوال آخر ، دلبندم کسر زیر را تا حد امکان ساده کن. $\frac{18\div6}{24\div6}=\frac{3}{4}$	11
	صفحه ی 3 از3	

www.amoozeshmelli.com

Scanned with CamScanner