نام و نام خانوادگی: .....
مقطع و رشته: سوم
نام پدر: .....
شماره داوطلب: .....
تعداد صفحه سؤال: ۳ صفحه

جمهوری اسلامی ایران
اداره ی کل آموزش و پرورش شهر تهران
اداره ی آموزش و پرورش شهر تهران منطقه ۴ تهران
دبستان غیردولتی دخترانه سرای دانش واحد نیروی دریایی
ارزشیابی پایان ترم خرداد سال تحصیلی ۱۴۰۴- ۱۴۰۳
www.sarayedanesh.com
021-2936

نام درس: ریاضی
نام دبیر: الهام حسینی
تاریخ امتحان: ۱۴۰۴/۲/۲۷
ساعت امتحان: ۸ صبح/ عصر
مدت امتحان : ۶۰ دقیقه

نمره به عدد:	نمره به حروف:	نمره تجدید نظر به عدد: نمره به حروف:	محل مهر و امضاء مدیر
نام دبیر:	تاریخ و امضاء:	نام دبیر: تاریخ و امضاء:	

ردیف	سؤالات	بارم
۱	جاهای خالی را با کلمات مناسب پر کنید. اندازه دور هر شکل را .....می نامند. هر دایره .....خط تقارن دارد. خط های .....هیچ گاه یکدیگر را قطع نمی کنند. مثلثی که .....ضلع آن برابر است مثلث متساوی الاضلاع می گویند. .....سانتی متر یعنی ۱متر و ۳۷سانتی متر. ۶۴۰۰ گرم یعنی .....کیلوگرم و .....گرم.	
۲	عدد ۸۰۶۳ را در جدول ارزش مکانی قرار داده و به سوالات زیر پاسخ دهید. الف)عدد را به حروف بنویسید. ب)رقم صفر در چه مرتبه ای قرار دارد. ج)بزرگترین عدد در چه مرتبه ای قرار دارد. یکان | دهگان | صدگان | هزارگان	
۳	الگوهای زیر را ادامه دهید. .....-.....-.....-.....-.....-۵۴-۶۰ □□ □□□□ □□□□□□	
۴	برنامه کودک تلویزیون هر روز ساعت ۱۷:۳۰پخش می شود .زمان پخش این برنامه ساعت چند بعد از ظهر است؟	
۵	کسر زیر را روی محور نشان دهید. 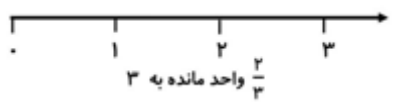	

www.amoozeshmelli.com

۶	باغچه ای به شکل مستطیل به طول ۸ و عرض ۴ داریم.می خواهیم دور تا دور آن را نرده بکشیم.برای دور تا دور آن چند متر نرده نیاز داریم؟مساحت این باغچه را به دست آورید.	
۷	**کسر $\frac{۴}{۶}$ را روی شکل نشان بدهید .**	
۸	باکمک ضرب محیط شکل زیر را پیدا کن. (اندازه ی هر ضلع ۴ س) 	
۹	**حاصل جمع و تفریق زیر را به دست آورید .** تکنیکی: ۵۸۰۲ − ۲۳۶۹ غیرآیندی: ۴۶۵۲ + ۳۲۴۷	
۱۰	**در باغ مشهدی یحیی درختان زیر کاشته شده است . با توجه به جدول نمودارها را کامل کنید .** گلابی ۱۰ ، هلو ۱۰ ، گیلاس ۵ ، سیب ۲۰ ، زردآلو ۱۵ ، درخت / تعداد 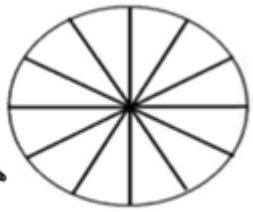 هرقسمت = ۵ درخت 	
۱۱	حاصل ضرب عبارت های زیر را بنویس ۲×۲۰×۲۰= ۲۰×۴۰= ۱۰۰×۳= ۵×۹= ۶×----=۶۰۰	

www.amoozeshmelli.com

۱۲	برای شکلهای روبه‌رو عملیات‌های خواسته شده را بنویسید .  ..... + ... + ... + ... + ... + ... = ... × ..... = ... ÷ ..... = ... 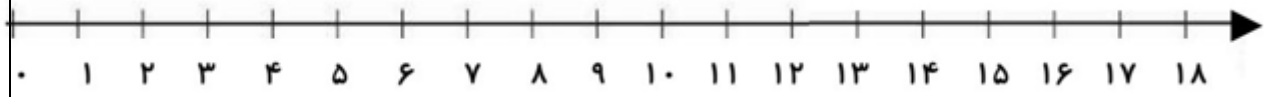 ۰ ۱ ۲ ۳ ۴ ۵ ۶ ۷ ۸ ۹ ۱۰ ۱۱ ۱۲ ۱۳ ۱۴ ۱۵ ۱۶ ۱۷ ۱۸	
۱۳	نام شکل‌های زیر را بنویسید . 	
	خداقوت دانش‌آموز کوشا و پرتلاشم بازخورد آموزگار:	

جمع بارم : ۲۰ نمره

www.amoozeshmelli.com

اداره ی کل آموزش و پرورش شهر تهران
اداره ی آموزش و پرورش شهر تهران منطقه ۴ تهران
دبستان غیر دولتی دخترانه سرای دانش واحد نیروی دریایی
کلید سؤالات پایان ترم نوبت دوم خرداد سال تحصیلی ۱۴۰۴-۱۴۰۳
www.sarayedanesh.com

نام درس: ریاضی
نام دبیر: حسینی
تاریخ امتحان: ۲۷ / ۱۴۰۴/۲
ساعت امتحان: ۸ صبح/ عصر
مدت امتحان: دقیقه

ردیف	راهنمای تصحیح	محل مهر یا امضاء مدیر

۱ جاهای خالی را با کلمات مناسب پر کنید.

اندازه دور هر شکل را محیط می نامند.

هر دایره بی نهایت خط تقارن دارد.

خط های موازی هیچ گاه یکدیگر را قطع نمی کنند.

مثلثی که ۳ ضلع آن برابر است مثلث متساوی الاضلاع می گویند.

۱۳۷ سانتی متر یعنی ۱متر و ۳۷سانتی متر.

۶۴۰۰ گرم یعنی ۶ کیلوگرم و ۴۰۰ گرم.

۲ عدد ۸۰۶۳ را در جدول ارزش مکانی قرار داده و به سوالات زیر پاسخ دهید.

هزارگان	صدگان	دهگان	یکان
۸	۰	۶	۳

الف)عدد را به حروف بنویسید. هشت هزار و شصت و سه

ب)رقم صفر در چه مرتبه ای قرار دارد. صدگان

ج)بزرگترین عدد در چه مرتبه ای قرار دارد. هزارگان

۳ الگوهای زیر را ادامه دهید.

۵۴ - ۶۰ - ۶۶ - ۷۲ - ۷۸ -

□□ □□□□ □□□□□□

۴ برنامه کودک تلویزیون هر روز ساعت ۱۷:۳۰ پخش می شود .زمان پخش این برنامه ساعت چند بعد از ظهر است؟

۵:۳۰ دقیقه بعدازظهر

۵ کسر زیر را روی محور نشان دهید.

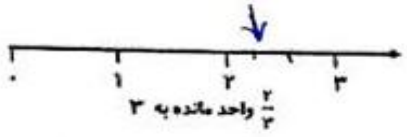

www.amoozeshmelli.com

۶ باغچه ای به شکل مستطیل به طول ۸ و عرض ۴ داریم.می خواهیم دور تا دور آن را نرده بکشیم.برای دور تا دور آن چند متر نرده نیاز داریم؟مساحت این باغچه را به دست آورید.



محیط مستطیل = (طول + عرض) × ۲ = (۸ + ۴) × ۲ = ۲۴ متر نرده نیاز داریم

مساحت مستطیل = طول × عرض = ۸ × ۴ = ۳۲ متر مربع

۷ کسر $\frac{۴}{۶}$ را روی شکل نشان بدهید .



۸ باکمک ضرب محیط شکل زیر را پیدا کن. (اندازه ی هر ضلع ۴ س)



۶ × ۴ = ۲۴ س م

۹ حاصل جمع و تفریق زیر را به دست آورید .

تکنیکی

$$\begin{array}{r} ۵۸۶۱ \\ -\ ۲۳۶۹ \\ \hline ۳۴۴۲ \end{array}$$

غیرآیندی

$$\begin{array}{r} ۴۶۵۲ \\ +\ ۳۴۴۷ \\ \hline ۷۹۵۲ \\ +\ \ ۲۰۰ \\ \hline ۷۸۵۲ \\ +\ \ \ ۴۰ \\ \hline ۷۸۹۲ \\ +\ \ \ \ ۷ \\ \hline ۷۸۹۹ \end{array}$$

(۴۶۵۲ + ۳۴۴۷) = (۴۶۵۲ + ۳۰۰۰ + ۴۰۰ + ۴۰ + ۷)

۱۰ در باغ مشهدی یحیی درختان زیر کاشته شده است . با توجه به جدول نمودارها را کامل کنید .

درخت	گلابی	گیلاس	سیب	هلو	گلابی
تعداد	۱۵	۵	۲۰	۱۰	۱۰

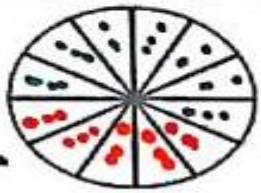

هرقسمت = ۵ درخت



۱۱ حاصل ضرب عبارت های زیر را بنویس

۲x۲۰x۲۰= ۸۰۰ ۲۰x۴۰= ۸۰۰ ۱۰۰x۳= ۳۰۰

۶x۱۰۰=۶۰۰ ۵x۹= ۴۵

www.amoozeshmelli.com

برای شکلهای روبه‌رو عملیات‌های خواسته شده را بنویسید .



۱۲

۳ + ۳ + ۳ + ۳ + ۳ + ۳ = ۱۸

۶ × ۳ = ۱۸

۱۲ + ۶ = ۱۸

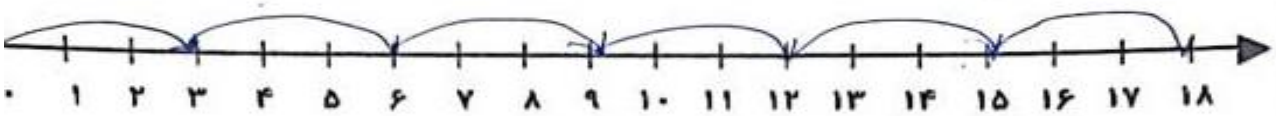

نام شکل‌های زیر را بنویسید .

۱۳



مخروط — استوانه — مکعب — شش ضلعی

جمع بارم : ۲۰ نمره	نام و نام خانوادگی مصحح :	امضاء:

www.amoozeshmelli.com