نام و نام خانوادگی :	جمهوری اسلامی ایران اداره ی کل آموزش و پرورش شهر تهران اداره ی آموزش و پرورش شهر تهران منطقه ۴ تهران دبستان غیردولتی دخترانه سرای دانش واحد الغدیر ارزشیابی ترم **دوم** سال تحصیلی **۱۴۰۲-۱۴۰۱**	نام درس : ریاضی نام دبیر: نوشین نصری تاریخ امتحان: ۱۴۰۲/۲/۳۱ ساعت امتحان : ۹صبح مدت امتحان : ۹۰دقیقه
پایه : سوم تعداد صفحه سؤال : ۳ صفحه		

ردیف	سؤالات	نمره
1	برای شکل زیر دو کسر مساوی بنویسید. 	
۲	مساحت قسمت رنگی شکل زیر را حساب کنید. 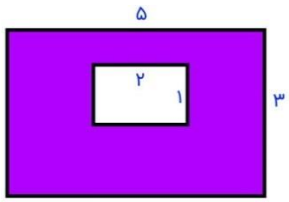	
۳	محیط و مساحت شکل های زیر را حساب کنید. 	
۴	مریم ۳۲ آب نبات را بین ۶ نفر به طور مساوی تقسیم کرد.به هر نفر چند آب نبات می رسد؟ چند آب نبات باقی می ماند؟ 	
۵	محیط و مساحت شکل زیر را حساب کنید. 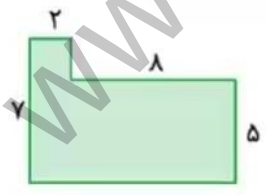	
۶	علامت< = > بگذارید. $\frac{1}{5} \bigcirc \frac{1}{6}$ $\quad \frac{3}{7} \bigcirc \frac{4}{7}$ ۴۵۷ ◯ ۴۳۶۷ $\quad$ ۲۰۰ تومان ◯ ۲۰۰ ریال $\quad$ ۲۰۰+۳۰۰ ◯ ۲۰۰۰	

www.amoozeshmelli.com

۷	پدر نازنین به او ۵۴۳۰ تومان پول داد و مادرش ۲۵۰۰ تومان به او پول داد.اگر نازنین ۶۱۴۰ تومان پولش را خرج کند، چقدر از پولش باقی می ماند؟	
۸	سارا ۶ دسته ی ۱۴ تایی مداد را بین ۹ نفر به طور مساوی تقسیم می کند.به هر نفر چند مداد می رسد؟ 	
۹	حاصل عبارت های زیر را بدست آورید ۳۶۴ × ۵ ۱۸÷۳= ۹×۴= ۸×۳= ۲۰×۴۰= ۳×۳= ۷×۰= ۱۰۰×۱۶= ۱۲÷۳= 	
۱۰	جاهای خالی را کامل کنید. ۳ کیلوگرم و ۶۵۰ گرم یعنی.....گرم ۵۵۰ تومان یعنی..... ریال ۶۷۰۰ متر یعنی ..... کیلومتر و ..... متر ۷متر یعنی .....سانتی متر	
۱۱	الگوها را ادامه دهید. ۲۰۰۴ -۲۰۰۶ - ..... -..... - ..... ۱۷۵۰ -۱۸۵۰ -.....-.....-.....	
۱۲	جدول زمان و ساعت بعدازظهر را کامل کنید. زمان ۱۵ ۲۰ بعدازظهر ۶ ۲	
۱۳	قطاری ساعت ۱۰:۳۰ صبح از تهران به سمت مشهد حرکت کرد و پس از ۶ ساعت به مشهد رسید.قطار در چه ساعتی به مشهد رسیده است؟ به دو صورت بیان کنید. 	

www.amoozeshmelli.com

۱۴	جاهای خالی را کامل کنید. 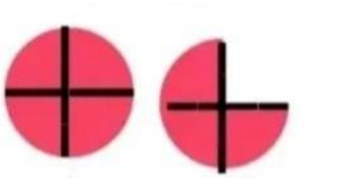 ..... واحد و ..... واحد   ..... واحد و ..... واحد	

موفق باشید عزیزانم ☺

www.amoozeshmelli.com

اداره ی کل آموزش و پرورش شهر تهران

اداره ی آموزش و پرورش شهر تهران منطقه ۴ تهران

دبستان غیر دولتی دخترانه سرای دانش واحد الغدیر

کلید سؤالات ارزشیابی ترم دوم سال تحصیلی ۱۴۰۲-۱۴۰۱

نام درس : ریاضی

نام دبیر :نوشین نصری

تاریخ امتحان : ۱۴۰۲/ ۲ /۳۱

ساعت امتحان : ۹صبح

مدت امتحان : ۹۰ دقیقه

ردیف	راهنمای تصحیح	محل مهر یا امضاء مدیر
1	برای شکل زیر دو کسر مساوی بنویسید. $\frac{2}{4}=\frac{1}{2}$	
۲	مساحت قسمت رنگی شکل زیر را حساب کنید. 5x3=15 2x1=2 15-2=13	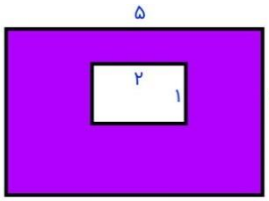
۳	محیط و مساحت شکل های زیر را حساب کنید. محیط مستطیل : (5+3)x2=16 مساحت مستطیل : 5x3=15 محیط مربع : 3x4=12 مساحت مربع : 3x3=9	
۴	علی۳۲ آب نبات را بین ۶ نفر به طور مساوی تقسیم کرد.به هر نفر چند آب نبات می رسد؟ ۵ چند آب نبات باقی می ماند؟ ۲ ۳۲ | ۶ -۳۰ | ۵ ۲	
۵	محیط و مساحت شکل زیر را حساب کنید. محیط: 2+8+5+10+7+2=34 مساحت : 5x8=40 2x7=14 40+14=54	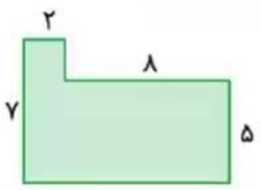

www.amoozeshmelli.com

۶	علامت< = > بگذارید. ۴۵۷ < ۴۳۶۷ ۲۰۰ تومان < ۲۰۰ ریال $\frac{۳}{۷} < \frac{۴}{۷}$ ۲۰۰+۳۰۰ < ۲۰۰۰ $\frac{۱}{۵} > \frac{۱}{۶}$
۷	پدر نازنین به او ۵۴۳۰ تومان پول داد و مادرش ۲۵۰۰ تومان به او پول داد.اگر نازنین ۶۱۴۰ تومان پولش را خرج کند، چقدر از پولش باقی می ماند؟ 5420+2500=7920 7920-6140=1780
۸	سارا ۶ دسته ی ۱۴ تایی مداد را بین ۹ نفر به طور مساوی تقسیم می کند.به هر نفر چند مداد می رسد؟  14x6=84 84 | 9 -81 | 9 3
۹	حاصل عبارت های زیر را بدست آورید ۳۶۴ × ۵ = 1820 ۱۸÷۳= 6 ۹×۴= 36 ۸×۳= 24 ۲۰×۴۰= 800 ۳×۳= 9 ۷×۰= 0 ۱۰۰×۱۶= 1600 ۱۲÷۳=4 
۱۰	جاهای خالی را کامل کنید. ۳ کیلوگرم و ۶۵۰ گرم یعنی.....3650.....گرم ۵۵۰ تومان یعنی..5500... ریال ۶۷۰۰ متر یعنی ...6.... کیلومتر و ..700.... متر ۷متر یعنی ...700.....سانتی متر

www.amoozeshmelli.com

۱۱

الگوها را ادامه دهید.

۲۰۱۲. – ۲۰۱۰.– ..۲۰۰۸. – ۲۰۰۶– ۲۰۰۴

۲۱۵۰.–.۲۰۵۰..–..۱۹۵۰– ۱۸۵۰– ۱۷۵۰

۱۲

جدول زمان و ساعت بعدازظهر را کامل کنید.

۱۴– ۸ – ۱۸ – ۳

زمان	۱۵		۲۰	
بعدازظهر		۶		۲

۱۳

قطاری ساعت ۱۰:۳۰ صبح از تهران به سمت مشهد حرکت کرد و پس از ۶ ساعت به مشهد رسید.قطار در چه ساعتی به مشهد رسیده است؟ به دو صورت بیان کنید.

۱۶:۳۰

۴,۵



۱۴

جاهای خالی را کامل کنید.





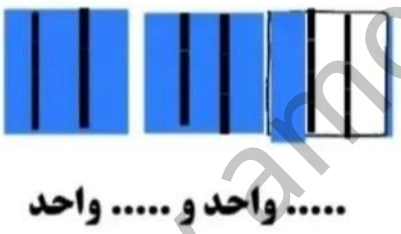

۱واحد و $\frac{3}{4}$

۲واحد و $\frac{1}{3}$

www.amoozeshmelli.com