نام ونام خانوادگی:

نام پشتیبان:ساجده جنیدی

نام آموزگار: زهره احمدی

دبستان (واحد سعادت آباد)

الگوی زیر را تا دو مرحله ادامه بده.

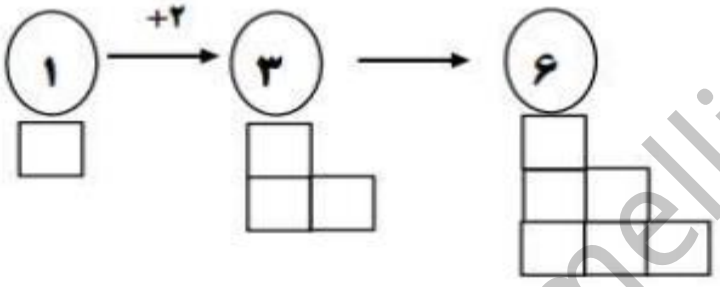

2-شکل زیر را به سه روش دسته بندی کن و برای آن جمع بنویس.

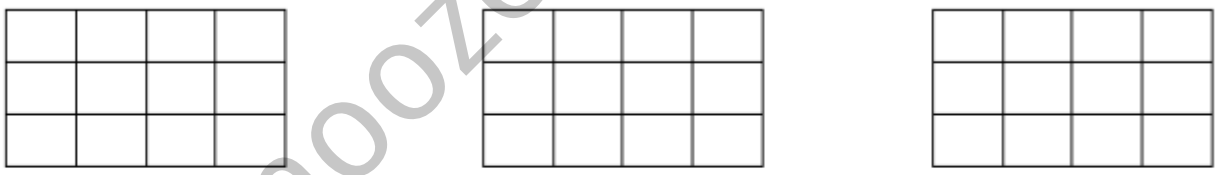

....

3-علی هر کیف را 450 تومان می خرد و 500 تومان می فروشد.او بافروش هرکیف چقدر سود می کند؟

اگر او 3 کیف بفروشد چقدر سود می کند؟

چند کیف بفروشد تا با سود آن بتواند یک کیف بخرد؟

4-جدول زیر را کامل کن.

زمان	16		14:18		هفده و ربع	
بعدازظهر		8		06:15		سه و نیم

www.amoozeshmelli.com

5-حاصل جمع و تفریق های زیر را بنویس.

۲۰۰+۸۰۰= ۱۰۰۰-۳۰۰= ۴۰۰۰-۲۰۰۰=

6-جاهای خالی را کامل کن..

عدد ۴۸۹۲ یعنی .....یکی،.....ده تایی،.....صدتایی و .....هزارتایی.

عدد.....یعنی ۷ یکی ،۶ ده تایی و ۳ هزارتایی.

عدد .....یعنی ۲ یکی ،۵ صدتایی و ۸ هزارتایی.

7-واحدهای ریال را به تومان و تومان را به ریال تبدیل کن.

۱۰۰۰ریال=.....تومان **۵۰۰ تومان=.....ریال**

۳۴۰ریال=.....تومان **۲۲تومان=.....ریال**

8-یک دلار کشوری به اندازه 1000 تومان ارزش دارد.5 دلار این کشور ارزش بیشتری دارد یا 4825 تومان؟چرا؟.

9-اعداد زیر را باهم مقایسه کنید.

۱۲۴۰ ◯ ۱۲۴۳ ۳۴۰۰ ◯ ۴۴۰۰ ۲۳۸۵ ◯ ۲۳۹۵

10-باتوجه به محور اعداد را به صورت تقریبی نشان دهید.

۹۲۰ , ۲۲۵۰ , ۴۷۸۱ , ۶۰۹۹



11-4000متر چندکیلومتر است؟

325 سانتی متر یعنی .....متر و .....سانتی متر

.

www.amoozeshmelli.com

.

www.amoozeshmelli.com

نام ونام خانوادگی:

نام پشتیبان:ساجده جنیدی

نام آموزگار: زهره احمدی

دبستان (واحد سعادت آباد)

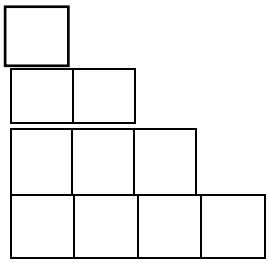

10

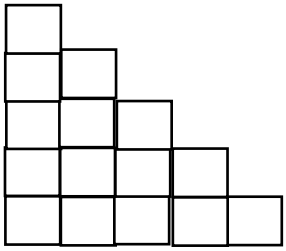

15

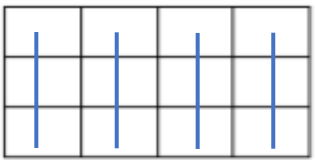

3+3+3+3=12



4+4+4=12

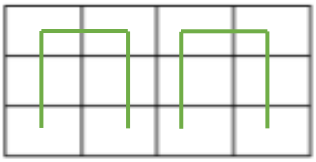

6+6=12

50تومان-150تومان-9کیف

.

پانزده و نیم	هفده و ربع	18:15	14:18	20	16	زمان
سه و نیم	پنج و ربع	06:15	2:18	8	4	بعدازظهر

2000-700-1000

www.amoozeshmelli.com

4-8-9-2

3067

8502

100تومان

34تومان

5000ریال

220ریال.

4825<5000

5دلار=5000تومان

1240<1243

3400<4400

2385<2395



4کیلومتر

3مترو 25سانتی متر

.

.

www.amoozeshmelli.com

www.amoozeshmelli.com