نام و نام خانوادگی: ..... مقطع : سوم الف	جمهوری اسلامی ایران اداره ی کل آموزش و پرورش شهر تهران اداره ی آموزش و پرورش شهر تهران منطقه ۷ تهران دبستان غیردولتی سرای دانش واحد شریعتی آزمون **نوبت اول** سال تحصیلی **۱۴۰۳- ۱۴۰۲**	نام درس: ریاضی نام دبیر: محبوبه رهنما تاریخ امتحان: ..... / ...../۱۴۰۲ ساعت امتحان: .... : .... صبح/ عصر مدت امتحان : ..... دقیقه

ردیف	سؤالات	
۱	الگویابی کن. **۳۴- ۳۸**-.....-.....-.....-.....-..... **۷- ۹**-.....-.....-.....-.....-..... **۱۱۰۰-۱۲۰۰**-.....-.....-.....-.....-.....	
۲	جای خالی را با عدد مناسب پر کن. 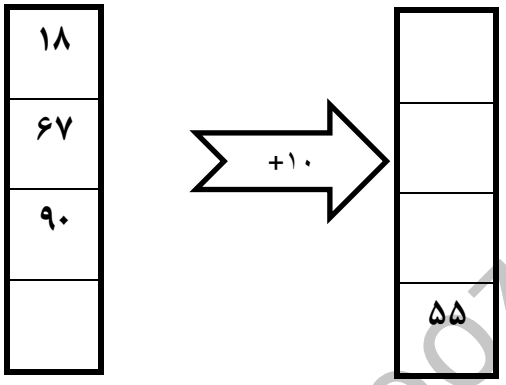	
۳	یک ربع بعد از ساعت ها را روی ساعت نشان بده. 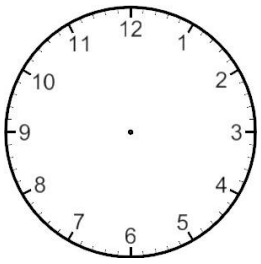 ۲۲:۱۵ 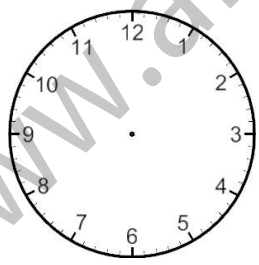 ۱۳:۲۰	
۴	همه ی عددهای سه رقمی را بنویس که صدگان آن ۶ و ۹ و دهگان آن ۴ و ۳ و یکان آن ۲ باشد.(نمودار درختی)	

www.amoozeshmelli.com

۵	برای عدد زیر شکل بکش، و بعد آن را به حروف بنویس و در جدول ارزش مکانی ببر. **۲۵۳۳**	
۶	جاهای خالی را با عدد مناسب پرکن. ۸۹۰ ..... متر و ..... سانتی متر است. ۶۷۸۹ ..... کیلومتر و .....متر و ..... سانتی متر است. ۳ کیلوگرم ..... گرم است. ۴۰۰۰ متر ..... کیلومتر است. ضخامت کتاب نگارش حدود ۷ ..... است. جرم یک پرتقال حدود ۵ ..... است.	
۷	.یک دایره به شعاع ۳ سانتی متر با پرگار بکش. آن را به ۳ قسمت تقسیم کن و ۲ قسمت آن را رنگ بزن و کسر آن را بنویس.	
۸	برای شکل زیر دو کسر مساوی بکش. 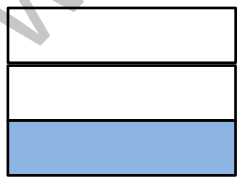	
۹	عددهای زیر را روی محور نشان بده. $\frac{2}{3}$ واحد بعد از ۴	

www.amoozeshmelli.com

	$\frac{1}{2}$ واحد قبل از ۲ زاویه هر شکل را مشخص کن و شکلی که زاویه بیشتری دارد را رنگ سبز بزن. 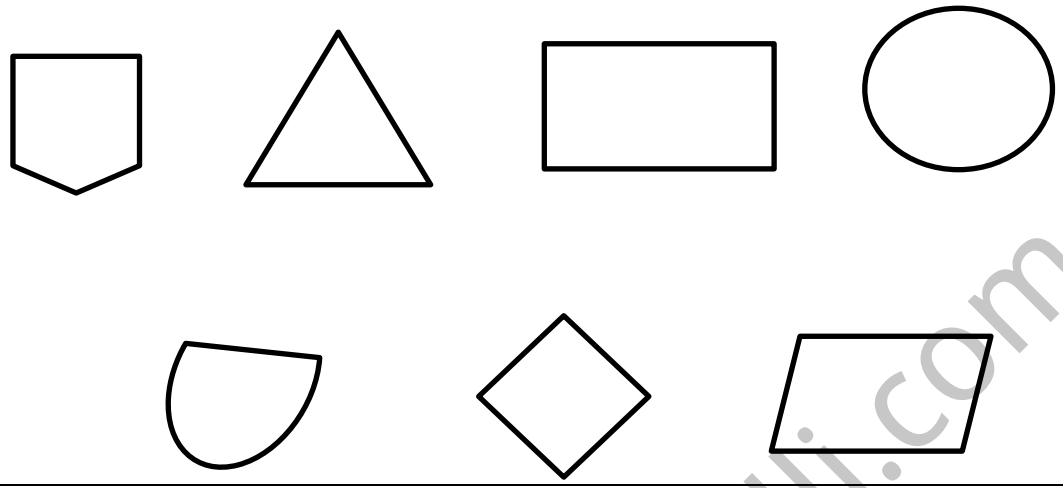	۱۰
	بین هر کسر علامت $\geq$ $\leq$ بگذار. $\frac{3}{5}$ ◯ $\frac{4}{5}$ $\frac{2}{5}$ ◯ $\frac{2}{4}$	۱۱
	پسرم آزمونت چطور بود؟ **خیلی خوب بود** **خوب بود** **خیلی از سوالات را بلد نبودم** . **بازخورد آموزگار :** .... **تعداد خطا :**	

www.amoozeshmelli.com

اداره ی کل آموزش و پرورش شهر تهران
اداره ی آموزش و پرورش شهر تهران منطقه ۷ تهران
دبستان غیر دولتی پسرانه سرای دانش واحد شریعتی
کلید سوالات میان نوبت اول سال تحصیلی ۱۴۰۱-۱۴۰۰

نام درس: .....
نام دبیر: .....
تاریخ امتحان: ..... / ...../۱۴۰۱
ساعت امتحان: ..... صبح/ عصر
مدت امتحان: ..... دقیقه

ردیف	
۱	۳۴- ۳۸- ۴۲..- ۴۶.-.۵۰-.۵۴..-.۵۸ ۷- ۹- ۱۱- ۱۳-.۱۵- .۱۷.-.۱۹. ۱۱۰۰—۱۲۰۰- ۱۳۰۰..- ۱۴۰۰-.۱۵۰۰..- ۱۶۰۰.-.۱۷۰۰
۲	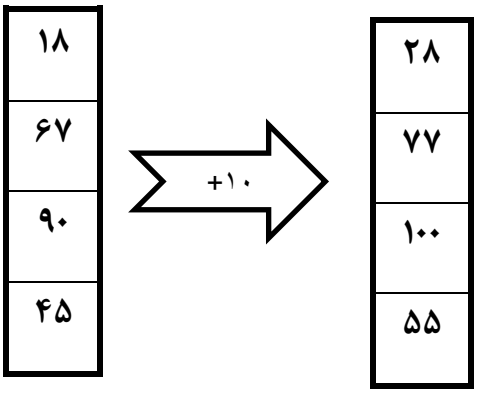
۳	
۴	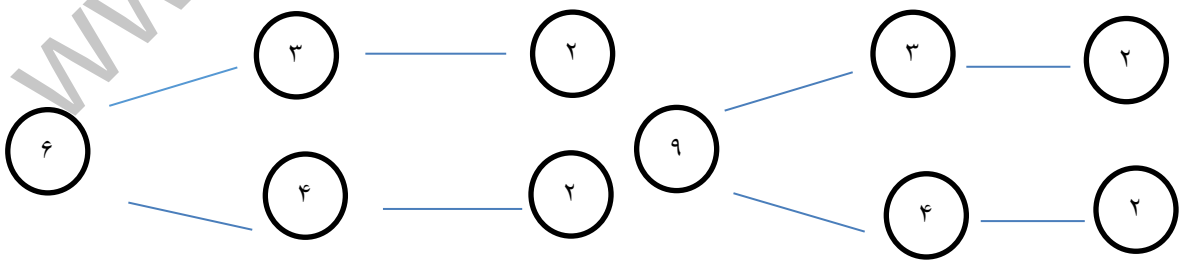
۵	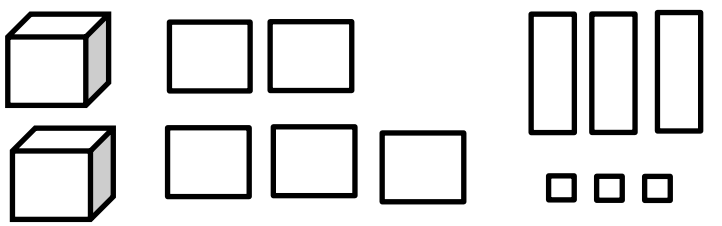 دو هزار و پانصد و سی و سه

ی	د	ص	ه
۳	۳	۵	۲

www.amoozeshmelli.com

۶	۸ متر و ۹۰ سانتی متر ۶ کیلومتر و ۷ متر و ۸۹ سانتی متر ۳۰۰۰ گرم ۴ کیلومتر سانتی متر گرم
۷	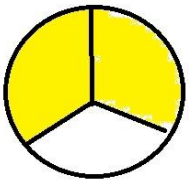 $\frac{2}{3}$
۸	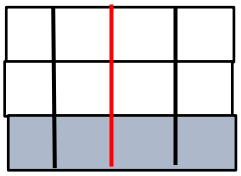 $\frac{2}{6} = \frac{4}{12}$
۹	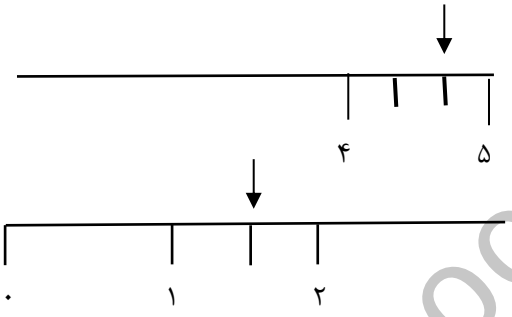
۱۰	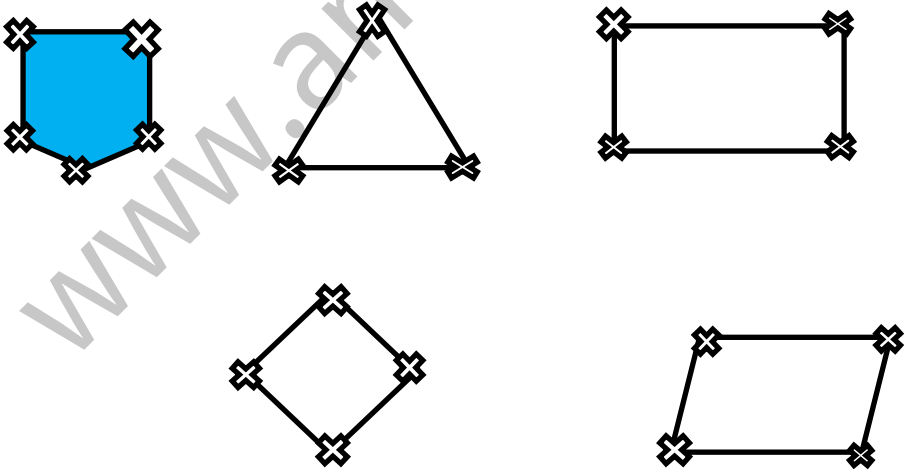
۱۱	$\frac{3}{5} \gtrless \frac{4}{5}$ $\frac{2}{5} \gtrless \frac{2}{4}$

www.amoozeshmelli.com