نام و نام خانوادگی:	جمهوری اسلامی ایران اداره ی کل آموزش و پرورش شهر تهران اداره ی آموزش و پرورش شهر تهران منطقه ۷ تهران دبستان غیردولتی سرای دانش واحد شریعتی آزمون ترم **اول** سال تحصیلی **۱۴۰۳- ۱۴۰۲**	نام درس: ریاضی نام دبیر: خانم چگنی تاریخ امتحان: ۱۸ / ۱۰/ ۱۴۰۲ ساعت امتحان: .... : .... صبح/ عصر مدت امتحان : ۴۵ دقیقه
مقطع : سوم ب		

ردیف	سؤالات	
۱	**جاهای خالی را کامل کن .** **الف) ۹ کیلومتر چند متر است ؟ _____** **ب) ۴۲۰ سانتی متر برابر است با _____ متر و _____ سانتی متر .** **ج) ۲۷۰۰ گرم یعنی _____کیلو گرم و _____ گرم.** **د) ۵۰۰۰ ریال برابر است با _____ تومان .**	
۲	**اعداد زیر را با حروف و یا رقم بنویس.** ۳۵۷۶ | ۱۹۰۵ | دوهزاروهشتصد و سی و یک | هفت هزار و سیزده _____ | _____ | _____ | _____	
۳	**الگوی شمارشی چند تا چند تا ادامه دهید.** ۷ ، ۱۴ ، ۲۱ ، ۲۸ ، ، ، ، ، ، ، ، ، ۱۶۰۰ ، ۱۴۰۰ ، ۱۲۰۰ ، ۱۰۰۰	
۴	**عدد های زیر را بصورت گسترده بنویس.** ۱۲۴۳= ۶۰۰۶= ۳۰۶۰= ۵۹۸=	
۵	**بزرگ ترین عدد چهار رقمی و کوچک ترین عدد سه رقمی را بنویس و سپس اختلاف بین آن ها را پیدا کن.** **بزرگ ترین عدد چها رقمی ←** ☐ **کوچک ترین عدد سه رقمی ←** ☐ **اختلاف بین دو عدد ←** ☐	

www.amoozeshmelli.com

۶	یک دلار کشور شکرستان ۱۲۰۰ تومان است . ۳ دلار این کشور چند تومان ارزش دارد ؟	
۷	خط تقارن شکل های زیر را رسم کن.  	
۸	جدول مربوط به زمان ها را کامل کن . زمان | ۱۶ | ۱۹:۲۵ | | بعدازظهر | | | ۲ | ۸:۱۵	
۹	مصطفی در تابستان بادکنک می فروشد ، اگر از فروش هر بادکنک ۱۰۰ تومان سود به دست آورد با استفاده از جدول نظام دار بگو : الف) باید چند بادکنک بفروشد تا ۳۰۰ تومان سود ببرد ؟ ب) برای اینکه ۸۰۰ تومان سود کند چند بادکنک باید بفروشد ؟	
۱۰	هر یک از کسر های داده شده را روی شکل نشان دهید. $\frac{۲}{۶} =$ $\frac{۳}{۸} =$	
۱۱	عدد های داده شده را روی محور نشان دهید $\frac{۳}{۴}$ واحد بعد از عدد ۳ $\frac{۲}{۳}$ واحد مانده به عدد ۲	

www.amoozeshmelli.com

۱۲	**مقایسه کنید .** $\frac{۱}{۴} \square \frac{۱}{۷}$ $\quad$ $\frac{۳}{۸} \square \frac{۳}{۲۲}$ $\frac{۶۵}{۲۵} \square \frac{۱۴}{۲۵}$	
۱۳	**کسر مربوط به هر شکل را نوشته و به سوال پاسخ دهید**  $\frac{....}{....} = ...$ **به جای کسر $\frac{۳}{۳}$ چه عدد می توانیم بنویسیم؟**	

www.amoozeshmelli.com

اداره ی کل آموزش و پرورش شهر تهران
اداره ی آموزش و پرورش شهر تهران منطقه ۷ تهران
دبستان غیر دولتی پسرانه سرای دانش واحد شریعتی
کلید سوالات میان نوبت اول سال تحصیلی ۱۴۰۱-۱۴۰۰

نام درس: ریاضی
نام دبیر: خانم چگنی
تاریخ امتحان: ۱۸ / ۱۰ /۱۴۰۱
ساعت امتحان: ..... صبح/ عصر
مدت امتحان: ..... دقیقه

ردیف	
۱	الف) ۹۰۰۰ متر ب) ۴ مترو ۲۰ سانتی متر ج) ۲ کیلو گرم و ۷۰۰ گرم د) ۵۰۰ تومان
۲	۷۰۱۳ ، ۲۸۳۱ ، هزارونهصد و پنج ، سه هزار پانصد و هفتاد و شش
۳	۳۵ ، ۴۲ ، ۴۹ ، ۱۸۰۰ ، ۲۰۰۰ ، ۲۲۰۰
۴	۱۰۰۰+۲۰۰+۴۰+۳ ۶۰۰۰+۶ ۳۰۰۰+۶۰ ۵۰۰+۹۰+۸
۵	بزرگترین ۹۹۹۹ ، کوچکترین ۱۰۰ اختلاف ۹۸۹۹

۶				
	۳	۲	۱	دلار
	۳۶۰۰	۲۴۰۰	۱۲۰۰	تومان

۷	مثلث ۳ بیضی ۲
۸	۴ ، ۷:۲۵ ، ۱۴:۰۰ ، ۲۰ : ۱۵

۹									
	۸	۷	۶	۵	۴	۳	۲	۱	تعداد
	۸۰۰	۷۰۰	۶۰۰	۵۰۰	۴۰۰	۳۰۰	۲۰۰	۱۰۰	سود

۱۰

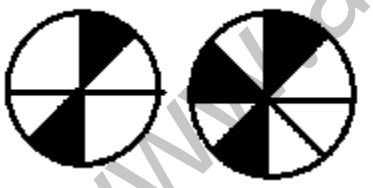

۱۱

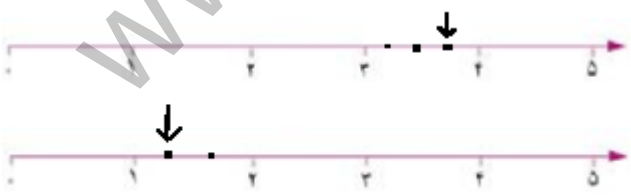

۱۲ < ، < ، >

۱۳ $\frac{۱}{۳}$ ، $\frac{۲}{۳}$ ، $\frac{۳}{۳}$

به جای $\frac{۳}{۳}$ میتوانیم ۱ بنویسیم

www.amoozeshmelli.com