نام و نام خانوادگی: ..... مقطع و رشته: دوم دبستان تعداد صفحه سؤال: ۴ صفحه	جمهوری اسلامی ایران اداره ی کل آموزش و پرورش شهر تهران اداره ی آموزش و پرورش شهر تهران منطقه ۲ تهران دبستان غیردولتی پسرانه سرای دانش واحد مرزداران آزمون ارزشیابی توصیفی نوبت اول سال تحصیلی ۱۴۰۲-۱۴۰۱	نام درس: ریاضی نام دبیر: زهرا سپاس گزار

ردیف	سؤالات	نمره
۱	یک کتاب ۶۵ صفحه دارد . علی ۲۰ صفحه را هفته ی قبل خوانده بود .این هفته او ۳۵ صفحه ی دیگر را خواند . چند صفحه از کتاب باقی مانده است ؟	
۲	با کارت های ۹ و ۲ هر چه می توانی عدد دو رقمی ساخته و اعداد در جدول یکی و ده تایی قرار داده شود.	
۳	با یکان ۷ و دهگان ۸ یک عدد دور قمی به عدد و حروف نوشته شود عدد: ..... حروف :	
۴	حاصل عبارات زیر را با استفاده از روش خواسته شده به دست آورید . الف)۸ + ۷ = (چوب خط) ب)۵۵-۳۰ = (بسته ی یکی و ده تایی)	

www.amoozeshmelli.com

۵	جاهای خالی را کامل کنید . الف ..... + ... = ۵ ب ..... + ... = ۵ پ ..... + ... = ۵ ت ..... + ... = ۵ ث ..... + ... = ۵	
۶	با استفاده از روش فرایندی پاسخ عبارات زیر داده شود .(عبارات ستونی نوشته شوند) ۳۲+ ۲۳= ۳۲-۵۶=	
۷	ساعت های زیر را نمایش دهید . 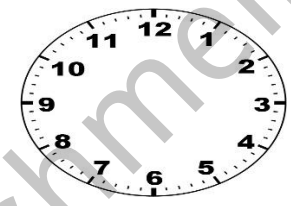 ۱۲: ۵۵ 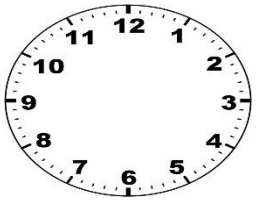 ۰۱:۳۰	
۸	خط تقارن شکل های زیر رسم شود . 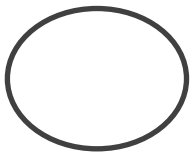  	
۹	تعداد ضلع و گوشه ی شکل های زیر را نشان داده و بنویسید .  ..... : تعداد ضلع .....: تعداد گوشه  ..... : تعداد ضلع .....: تعداد گوشه 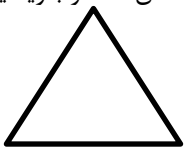 ..... : تعداد ضلع .....: تعداد گوشه	
۱۰	تفاوت و شباهت شکل های زیر را بنویسید .  (۱) (۲) تفاوت : ..... . شباهت :	

www.amoozeshmelli.com

۱۱	عددهای زیر را به صورت باز شده بنویسید . الف) ..... = ۵۶۴ ب) ..... = ۸۹۹	
۱۲	معین یک کیسه ی آجیل دارد که شامل ۸۰ بادام ، ۶۰ پسته و ۱۰۰ تخمه کدو است .اگر معین بخواهد بدون نگاه کردن به داخل کیسه ، بادام در بیاورد احتمال آن چقدر است و دلیل خود را توضیح دهید	
۱۳	برای شکل های زیر کسر بنویسید . 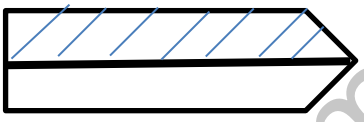	
۱۴	جاهای خالی را کامل کنید . 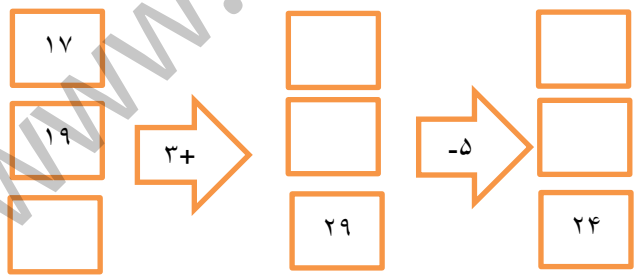	

www.amoozeshmelli.com

۱۵

تعداد درخت های کاج در چند خیابان شهر تهران شمرده شده است .این عددها به صورت تقریبی نوشته شده اند .اگر هر ۱۰ درخت را با  نشان دهیم ، جدول را کامل کنید .

نام خیابان	تعداد درخت ها	نمودار تصویری
ولیعصر	۴۰	
چیتگر	۳۰	
تجریش	۶۰	

www.amoozeshmelli.com

اداره ی کل آموزش و پرورش شهر تهران
اداره ی آموزش و پرورش شهر تهران منطقه ۲ تهران
پیش دبستان و دبستان غیر دولتی پسرانه سرای دانش واحد مرزداران
کلید سؤالات ارزشیابی توصیفی نوبت اول سال تحصیلی ۱۴۰۲-۱۴۰۱

نام درس: ریاضی
نام دبیر: زهرا سپاس گزار

ردیف	راهنمای تصحیح	محل مهر یا امضاء مدیر
۱	۳۶= ۱۲ + ۱۲ +۱۲ جلونویسی : علی ۳۶ مداد رنگی دارد .	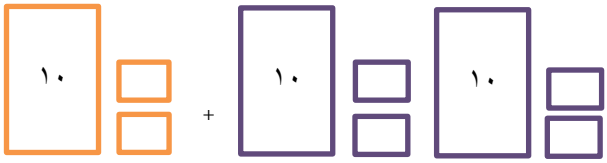
۲	۶۴-۴۴-۶۶- ۴۶	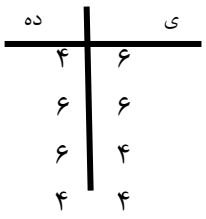
۳	عدد :۵۶ حروف : پنجاه و شش	
۴	۸+۷ =  ۳۰-۵۵ = 	
۵	۵+۰=۵ ۴+۱=۵ ۳+۲=۵ ۲+۳=۵ ۳+۲=۵ ۴+۱=۵	
۶	۲۳+۳۲= ۳۲ +۲۳ ۵۲ ۳۲-۵۶= ۵۶ -۳۲ ۲۶ - ۲ ۲۴ ۵۵ + ۳	

www.amoozeshmelli.com

۷

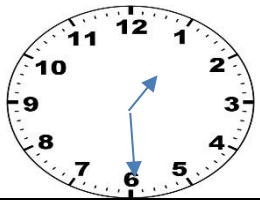
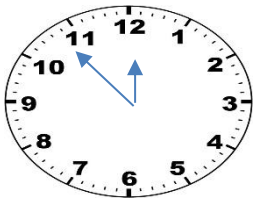

۸

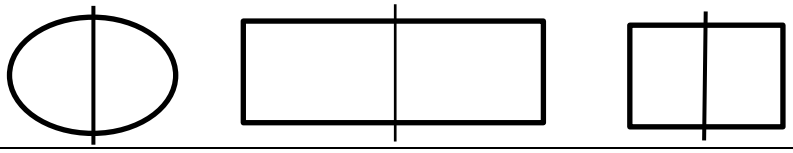

۹ دایره : ضلع و گوشه ندارد مربع: چهار گوشه و چهار ضلع دارد . مثلث: سه ضلع و سه گوشه دارد.

۱۰ تفاوت : ۱-در شکل اول اندازه ی ضلع ها برابر است ولی در شکل دوم فقط ضلع های روبه رو برابر هستند .
شباهت : ۱- هر دو شکل هندسی هستند . ۲- هر دو چهار گوشه و چهار ضلع دارند .

۱۱ .

الف) ۲۵= ۳۰

ب) ۸۲= ۸۰

پ) ۶۵= ۷۰

۱۲

۳۲ + ۵۶ = ۶۰+۳۰=۹۰

۲۴-۸۸ = ۲۰-۹۰=۷۰

۱۳ یک قسمت از دو قسمت مساوی رنگ شده است .

۱۴

۲۶	۲۰	۲۲	۵	۱۷

۱۵

نام خیابان	تعداد درخت	نمودار تصویری
ولیعصر	۴۰	▲▲▲▲
چیتگر	۳۰	▲▲▲
تجریش	۶۰	▲▲▲▲▲▲

نام و نام خانوادگی مصحح : **امضاء:**

www.amoozeshmelli.com

www.amoozeshmelli.com