نام و نام خانوادگی:	جمهوری اسلامی ایران اداره ی کل آموزش و پرورش شهر تهران اداره ی آموزش و پرورش شهر تهران منطقه ۴ تهران دبستان غیردولتی دخترانه سرای دانش واحد رسالت جمع بندی **پایان ترم نوبت دوم** سال تحصیلی **۱۴۰۲ - ۱۴۰۱**	نام درس: ریاضی نام دبیر: مریم سادات آقاحسینی تاریخ امتحان: **۱۴۰۲/۰۲/۲۳** ساعت امتحان: ۰۷ : ۳۰ صبح/ عصر مدت امتحان : ۹۰ دقیقه
مقطع و رشته:		
نام پدر:		
شماره داوطلب:		
تعداد صفحه سؤال: ۲ صفحه		

نمره به عدد:	نمره به حروف:	نمره تجدید نظر به عدد: نمره به حروف:	محل مهر و امضاء مدیر
نام دبیر:	تاریخ و امضاء:	نام دبیر: تاریخ و امضاء:	

ردیف	سؤالات	بارم
۱	الگو را ادامه بده:  	
۲	جای خالی را کامل کنید:  ..... تا ..... تایی می شود .... تا ..... تایی می شود	
۳	زمانی را که ساعت نشان می دهد به دو صورت بنویس: ....  یک ربع بعد از این ساعت چه ساعتی است..... نیم ساعت بعد از ساعت ۷:۳۰ ساعت چند است..... یک ساعت بعد از ساعت ۲:۴۵ چه ساعتی است.....	
۴	عدد های زوج را سبز و عدد های فرد را نارنجی کنید: ۵۶ ۸۷۷ ۹ ۸۰۰ ۴۳ ۱۰۲	
۵	با کارت های رو به رو تمام عدد های سه رقمی را که می توان بنویس:  	
۶	شکل های رو به رو چه شباهت ها و چه تفاوت هایی دارد؟ 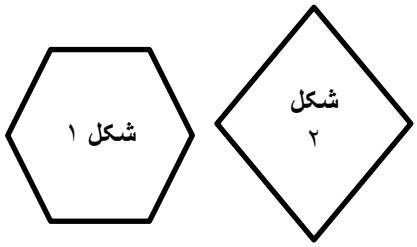 شباهت: .... تفاوت :	

www.amoozeshmelli.com

۷	جواب جمع و تفریق های زیر را به صورت تقریبی به دست آورید: ۵۲ +۳۶ - ۲۱ ۴۲	
۸	جمع و تفریق های زیر را به روش خواسته به دست آورید: به روش انتقالی: ۷۱۵ − ۲۹۸ به روش انتقالی: ۹۸۲ − ۴۴۴ به روش انتقالی: ۴۷۱ + ۳۹۹ به روش فرآیندی: ۲۵۳ + ۴۳۹ به روش فرآیندی: ۸۷۸ − ۳۲۴ به روش فرآیندی: ۲۵۱ + ۴۳۸	
۹	جدول زیر را کامل کن : 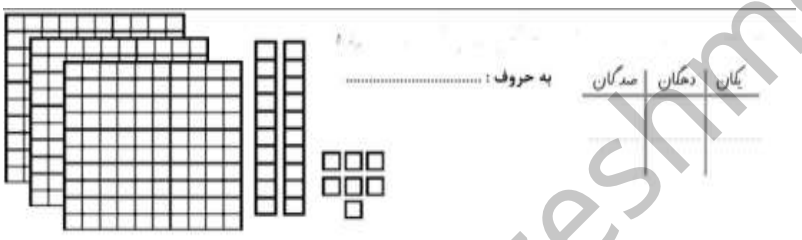 به حروف : ..... یکان | دهگان | صدگان	
۱۰	جدول زیر را کامل کن و نمودار آن را رسم کن: 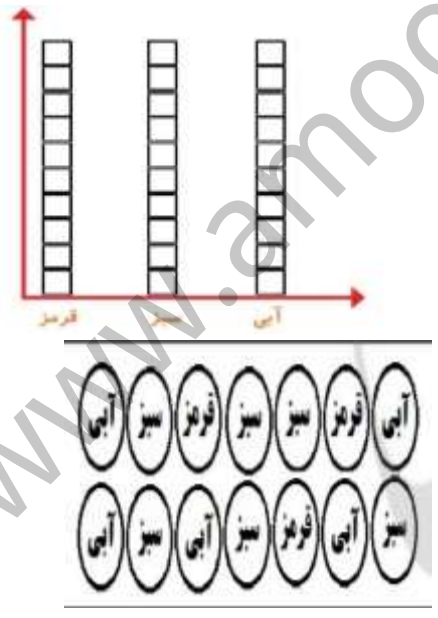 قرمز آبی آبی سبز قرمز سبز سبز قرمز آبی آبی سبز آبی سبز قرمز آبی سبز اگر بدون نگاه کردن به داخل کیسه، یک مهره انتخاب کنیم، احتمال بیرون آمدن کدام مهره بیشتر است؟.....	 |	چوب خط | عدد مهره قرمز مهره آبی مهره سبز جمع کل
۱۱	جاهای خالی را کامل کنید : ۴۸ میلی متر ..... سانتی متر و ..... میلی متر است ۵۰ سانتی متر چند میلی متر است.....	

www.amoozeshmelli.com

اداره ی کل آموزش و پرورش شهر تهران
اداره ی آموزش و پرورش شهر تهران منطقه ۴ تهران
دبستان غیر دولتی دخترانه سرای دانش واحد رسالت
کلید سؤالات پایان نوبت اول سال تحصیلی ۱۴۰۲ - ۱۴۰۱

نام درس:
نام دبیر:
تاریخ امتحان: ۱۴۰۱/۱۰/
ساعت امتحان: ۰۷:۳۰ صبح/ عصر
مدت امتحان: ۹۰ دقیقه

ردیف	راهنمای تصحیح	محل مهر یا امضاء مدیر
۱	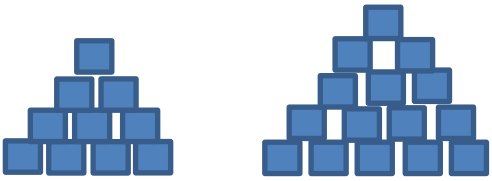	
۲	۲ تا ۴ تایی می شود ۸	۵ تا ۳ تایی می شود ۱۵
۳	۷:۱۵ و هفت و ربع یک ربع بعد از این ساعت چه ساعتی است. ۷:۳۰ نیم ساعت بعد از ساعت ۷:۳۰ ساعت چند است. ۸:۰۰ یک ساعت بعد از ساعت ۲:۴۵ چه ساعتی است : ۳:۴۵	
۴	سبز (۵۶- ۸۰۰ – ۱۰۲) نارنجی (۸۷۷ – ۹ – ۴۳)	
۵	۲۵۷ – ۲۷۵ – ۵۲۷ – ۵۷۲ – ۷۲۵ -۷۵۲	
۶	شباهت : هر دو شکل هندسی هستند . هر دو دو خط تقارن دارند . تفاوت : شکل ۱ شش ضلع و شش گوشه دارد ولی شکل ۲ چهار ضلع و چهار گوشه دارد.	
۷	۸۰ ۲۰	
۸	به روش انتقالی: ۷۱۵ − ۲۹۸ = ۴۱۷ به روش انتقالی: ۹۸۲ − ۴۴۴ = ۵۳۸ به روش انتقالی: ۴۷۱ + ۳۹۹ = ۸۷۰ به روش انتقالی: ۲۵۳ + ۴۳۹ = ۶۹۲ به روش فرآیندی: ۸۷۸ − ۳۲۴ = ۵۵۴ به روش فرآیندی: ۲۵۱ + ۴۳۸ = ۶۸۹	

www.amoozeshmelli.com

۹	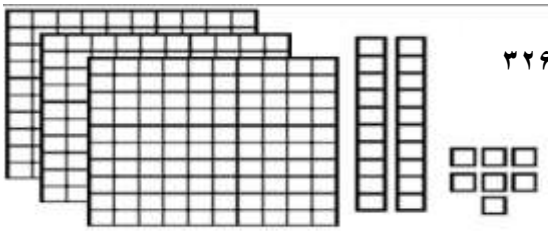 ۳۲۶ به حروف : یکان | دهگان | صدگان ۶ ۲ ۳
۱۰	مهره ی قرمز (۳) – مهره ی آبی (۵) – مهره ی سبز (۶) احتمال بیرون آمدن مهره سبز بیشتر است زیرا تعداد آن بیشتر است.
۱۱	۴۸ میلی متر ۴ سانتی متر و ۸ میلی متر ۵۰۰ میلی متر خط الف (۴ سانتی و ۵ میلی متر) خط ب (۷ سانتی متر)
جمع بارم : ۲۰ نمره	نام و نام خانوادگی مصحح : امضاء:

www.amoozeshmelli.com