نام و نام خانوادگی : .....
پایه :دوم
تعداد صفحه سؤال : ۳ صفحه

جمهوری اسلامی ایران
اداره ی کل آموزش و پرورش شهر تهران
اداره ی آموزش و پرورش شهر تهران منطقه ۴ تهران
دبستان غیردولتی دخترانه سرای دانش واحد الغدیر
ارزشیابی میان ترم **اول** سال تحصیلی **۱۴۰۴-۱۴۰۳**

نام درس :ریاضی
نام دبیر :باب الحوایجی
تاریخ امتحان : ۱۴۰۳/۸ /۲۸
ساعت امتحان : ۸ صبح
مدت امتحان : ۷۵دقیقه

ردیف	سؤالات	بارم

۱-با دوکارت عدد دورقمی بسازید . ۳ ۶

با عدد های ۷و۸و۰ عدد دورقمی بسازید .

۲- بزرگ ترین عدد دورقمی .....است .

یکان عددی ۸ ودهگان آن ۲می باشد آن عدد چیست ؟ .....

یکان عددی۳ودهگان آن ۵تا بیشتر می باشد آن عدد چیست ؟.....

۹دسته ی ده تایی منهای .....دسته ده تایی می شود ۴دسته ده تایی

۳دسته ی ده تایی به اضافه ی۴دسته ده تایی می شود ..... دسته ده تایی

۳- حاصل را بدست آورید . ۶۰-۲۰= ۴۰+۱۰+۱۰+۵=

۵۰-۲۰= ۲۰+۳۰+۴+۱۰+۵=

۴- الگو را ادامه بده

۱۰ -۲۰ -۳۰ - - - - - - - -

۷ -۱۴ - - - - - - - - -

۹۶ -۹۵ -۹۴ - - - - - - -

۵ -۱۰ - - - - - - - - -

۵- در دریاچه ای ۵۴ماهی قرمز و۲۶ ماهی سیاه برای پرورش ریختند دراین دریاچه چه تعداد ماهی قرمز وسیاه ریختند ؟

۶- ۶۷ ستاره درآسمان بود .۲۸تا از آن ها زیر ابر بودند چند تا ستاره در آسمان مانده است ؟

۷- جواب سوال به صورت تقریبی به دست آورید

۶ ۸ ⟶ ..... — ۲ ۳ ⟶ .....

۶ ۵ ⟶ ..... + ۴ ۲ ⟶ .....

www.amoozeshmelli.com

۸- نام اشکال را بنویسید .



نام : ..... نام : ..... نام : .....

گوشه : ..... گوشه : ..... گوشه : .....

ضلع: ..... ضلع: ..... ضلع: .....

۹- تقارن شکل ها را بکش



۱۰- شباهت : .....

تفاوت : .....

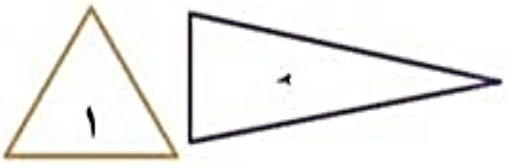

۱۱- جمع وتفریق رابه صورت فرایندی حل کنید (با کمک شکل)

۴ ۶
−
۲ ۵

۴ ۵
+
۲ ۵

۱۲- ساعت را نشان بده

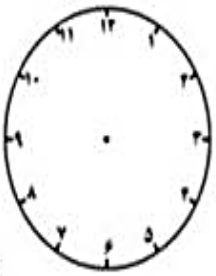

چهار نیم

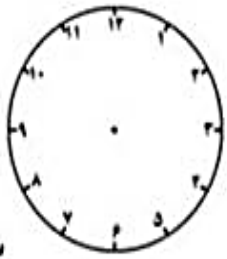

سه و ربع



۸:۲۰

۱۳- تقارن دیگر را رنگ کنید .

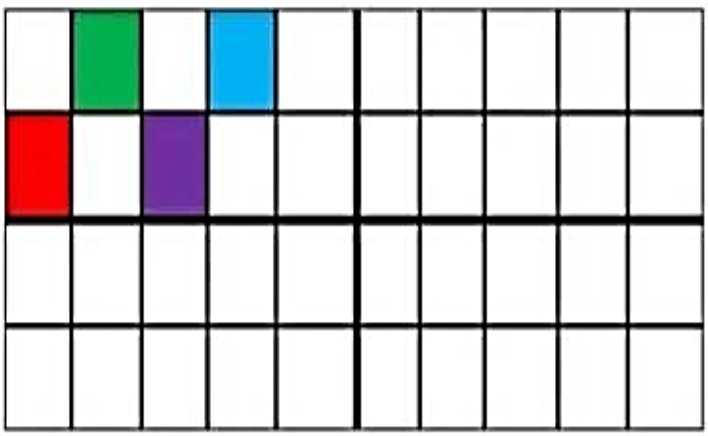

خط تقارن خطی است

.....

خدا قوت گلم



www.amoozeshmelli.com

اداره ی کل آموزش و پرورش شهر تهران
اداره ی آموزش و پرورش شهر تهران منطقه ۴ تهران
دبستان غیر دولتی دخترانه سرای دانش واحد الغدیر
کلید سؤالات میان ترم نوبت اول سال تحصیلی ۱۴۰۴ - ۱۴۰۳

نام درس:ریاضی
نام دبیر: مدیث باب الموائجی
تاریخ امتحان: ۲۸ / ۸ /۱۴۰۳
ساعت امتحان: ۸ صبح
مدت امتحان: ۷۵ دقیقه

ردیف	راهنمای تصحیح	محل مهر یا امضاء مدیر
۱	۱-الف:۶۳ و ۳۶ ب:۷۰-۸۰-۸۷-۷۸	
۲	۲-الف:۹۹ ب:۲۸ ج:۸۳ د:۵ ه:۷	
۳	از سمت چپ بالا به ترتیب ۶۵ ۴۰ ۶۹ ۳۰	
۴	۴۰-۵۰-۶۰-۷۰-۸۰-۹۰-۱۰۰ ۲۱-۲۸-۳۵-۴۲-۴۹-۵۶-۶۳-۷۰ ۹۳-۹۲-۹۱-۹۰-۸۹-۸۸-۸۷ ۱۵-۲۰-۲۵-۳۰-۳۵۰-۴۰-۴۵-۵۰	
۵	۸۰ عدد مهره قرمز و سیاه برداشته	
۶	۳۹ ستاره باقی مانده است	
۷		
۸	از شکل سمت راست به ترتیب شش ضلعی – ۶ گوشه و ۶ ضلع دارد. دایره – گوشه و ضلع ندارد. مثلث – ۳ گوشه و ۳ ضلع دارد.	

www.amoozeshmelli.com

۹	
۱۰	شباهت:هر دو ۳ ضلع و ۳ گوشه دارند و مثلث هستند. تفاوت:در شکل یک تمامی ضلع ها مساوی هستند اما در شکل ۲ فقط ۲ ضلع رو به رو مساوی هستند – شکل دوم درازتر است.
۱۱	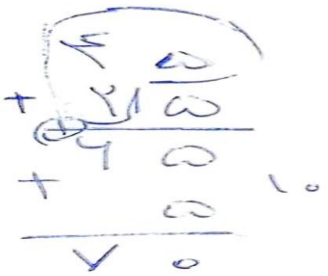 
۱۲	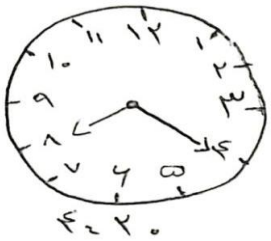 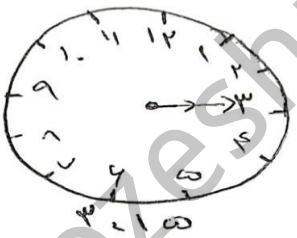 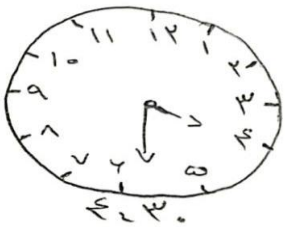
۱۳	خط تقارن خطی است که شکل را به دو قسمت مساوی تقسیم می کند. 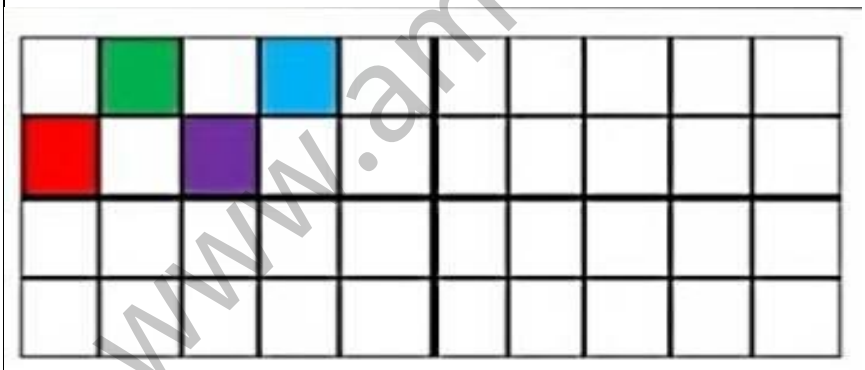

جمع بارم : ۲۰نمره	**نام و نام خانوادگی مصحح :**	**امضاء:**

www.amoozeshmelli.com