بسمه تعالی

دبستان پایدار

نام و نام خانوادگی : آزمون ریاضی نوبت اول دی ماه کلاس سوم دی ماه 1403

امام علی (ع) می فرمایند : یاد خدا عقل را آرامش می دهد، دل را روشن می کند و رحمت او را فرود می آورد.

۱-جاهای خالی را کامل کنید .

۲ هزارتایی و ۶ یکی و ۵ ده تایی و ۰ صدتایی می شود .....

۷۰۸۶ به حروف می شود .....

دو هزارو سیصد و هفتاد و شش به رقم می شود .....

مکعب از ..... مربع درست شده است .

یک سانتی متر ..... میلی متر است .

۳ متر ..... سانتی متر است .

۲ کیلوگرم و ۲۵۰گرم ..... گرم است .

۴۵۰۰ متر ..... کیلومتر و ..... متر است .

..... وسیله ای برای تشخیص زاویه ی راست است . مربع ..... زاویه ی راست دارد .

..... نصف قطر است . دایره ..... قطر دارد.

ساعت ۲۰ می شود ساعت ..... بعد از ظهر

ساعت ۳ بعد از ظهر می شود ساعت .....

۲- یک صندلی ۴ پایه دارد . ۲ صندلی چند پایه دارد ؟

۳ صندلی چند پایه دارد ؟

۳- تمام عدد های سه رقمی که رقم صدگان آن ۲ و ۳ ، رقم دهگان آن ۵ و رقم یکان آن ۴ باشد را بنویسید .

۴- ۲۰۰۰ لیره ی کشوری ۱۰ ریال است . ۳ تومان چند لیره ی این کشور است ؟

۵- ساعت یک ربع مانده به ۸ را نشان دهید.

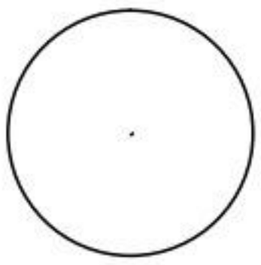

۶- عدد داه شده را روی محور نشان دهید . ۲ واحد بعد از عدد ۱

۳



۷- کسر های زیررا با زدن علامت (< = >) مقایسه کنید .

۵ واحد و ۲ واحد ◯ ۴ واحد و ۱ واحد

۵ واحد و ۲ واحد = $5\frac{2}{8}$

۴ واحد و ۱ واحد = $4\frac{1}{8}$

$\frac{۱}{۳}$ ◯ $\frac{۲}{۳}$

$\frac{۱}{۳} < \frac{۲}{۳}$

$\frac{۱}{۲}$ ◯ $\frac{۱}{۳}$

$\frac{۱}{۲} > \frac{۱}{۳}$

۸- عددی را به اضافه ی ۱۰ کردیم ، حاصل ۱۷ شد . آن عدد چیست ؟

۹- دایره ای به شعاع ۲ سانتی متر رسم کنید .

بهترین وسیله برای رسم دایره چیست ؟ .....

م•

۱۰- حاصل ضرب ها را به روش های خواسته شده به دست آورید .

با نوشتن ۹ × ۵ بارسم شکل ۴ × ۳

با محور ۶ × ۲ با شمارش ۵ تا ۵ تا ۵ × ۶

۱۱- دخترم عدد ها را باهم مقایسه کنید . ۳۵۸۹ ☐ ۳۵۲۰ ۶۸۰۰ ☐ ۸۵۰۰

۱۲- فاطمه ۲۷ کیک خرید . او می خواهد کیک ها را به ۹ نفر از دوستانش بدهد . به هر نفر چند کیک می رسد ؟

۱۳- زهرا ۸ سال و مادرش ۳۲ سال دارد. سن مادر زهرا چند برابر سن اوست ؟

۱۴ – دو خط موازی رسم کنید .

امید های آینده موفقیت و سربلندی شما آرزوی همیشگی ماست .

بازخورد معلم:

بسمه تعالی

دبستان پایدار

نام و نام خانوادگی : آزمون ریاضی نوبت اول دی ماه کلاس سوم دی ماه 1403

امام علی (ع) می فرمایند : یاد خدا عقل را آرامش می دهد، دل را روشن می کند و رحمت او را فرود می آورد.

۱-جاهای خالی را کامل کنید .

۲ هزارتایی و ۶ یکی و ۵ ده تایی و ۰ صدتایی می شود ۲۶۰۶

۷۰۸۶ به حروف می شود هفت هزار و هشتاد و شش

دو هزارو سیصد و هفتاد و شش به رقم می شود ۲۳۷۶

مکعب از ..... مربع درست شده است .

یک سانتی متر ۱۰ میلی متر است .

۳ متر ۳۰۰ سانتی متر است .

۲ کیلوگرم و ۲۵۰گرم ۲۲۵۰ گرم است .

۴۵۰۰ متر ۴ کیلومتر و ۵۰۰ متر است .

کمونیا وسیله ای برای تشخیص زاویه ی راست است . مربع ۴ زاویه ی راست دارد .

شعاع نصف قطر است . دایره بی‌شمار قطر دارد.

ساعت ۲۰ می شود ساعت ۸ بعد از ظهر

ساعت ۳ بعد از ظهر می شود ساعت ۱۵

* *

۲- یک صندلی ۴ پایه دارد . ۲ صندلی چند پایه دارد ؟ ۲×۴→۸

۳ صندلی چند پایه دارد ؟ ۳×۴→۱۲

* *

۳- تمام عدد های سه رقمی که رقم صدگان آن ۲ و ۳ ، رقم دهگان آن ۵ و رقم یکان آن ۴ باشد را بنویسید .

۲۵۴-۳۵۴

۴- ۲۰۰۰ لیره ی کشوری ۱۰ ریال است . ۳ تومان چند لیره ی این کشور است ؟

۳ تومان → ۳۰ ریال → $\begin{array}{c|c} ۱۰ & ۲۰۰۰ \\ \hline ۳۰ & ؟ \end{array}$ → ۶۰۰۰ لیره

۵- ساعت یک ربع مانده به ۸ را نشان دهید.

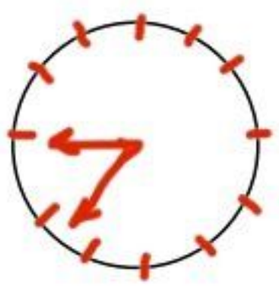

۶- عدد داه شده را روی محور نشان دهید . $\frac{۲}{۳}$ واحد بعد از عدد ۱

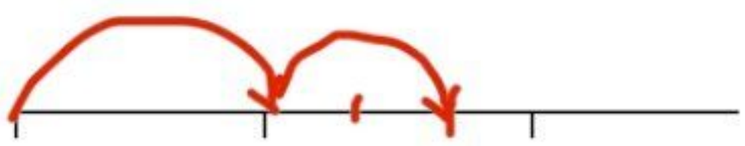

۷- کسر های زیررا با زدن علامت (< = >) مقایسه کنید .

۵ واحد و ۲ واحد $\frac{}{۸}$ < ۴ واحد و ۱ واحد $\frac{}{۸}$

$\frac{۱}{۳}$ > $\frac{۲}{۳}$ $\frac{۱}{۲}$ < $\frac{۱}{۳}$

۸- عددی را به اضافه ی ۱۰ کردیم ، حاصل ۱۷ شد . آن عدد چیست ؟

$\square + ۱۰ = ۱۷$

$\square = ۱۷ - ۱۰ = ۷$

۹- دایره ای به شعاع ۲ سانتی متر رسم کنید .



بهترین وسیله برای رسم دایره چیست ؟ نتاله

amoozeshmelli.com

۱۰- حاصل ضرب ها را به روش های خواسته شده به دست آورید .

با نوشتن ۹ × ۵ ۵ دسته ۹ تایی

۹+۹+۹+۹+۹ = ۴۵

بارسم شکل ۴ × ۳



= ۱۲

با محور ۶ × ۲

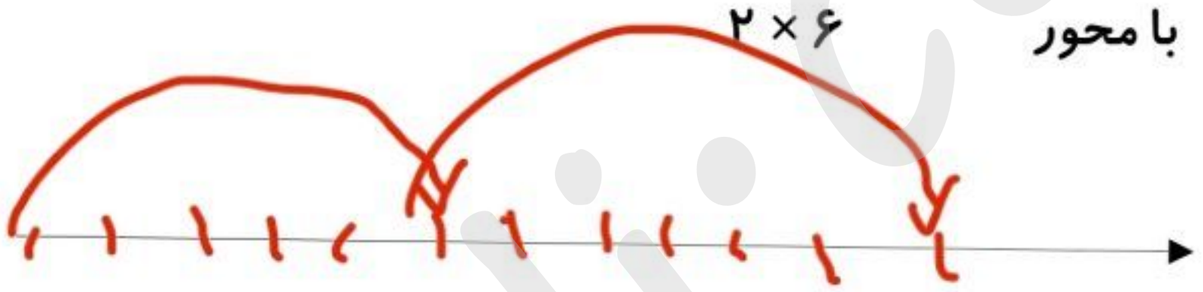

با شمارش ۵ تا ۵ تا ۵ × ۶

= ۳۰

۵+۵+۵+۵+۵+۵

* * * * * * * * * * * * * * * * * * * *

۱۱- دخترم عدد ها را باهم مقایسه کنید . ۳۵۸۹ < ۳۵۲۰ ۶۸۰۰ > ۸۵۰۰

۱۲- فاطمه ۲۷ کیک خرید . او می خواهد کیک ها را به ۹ نفر از دوستانش بدهد . به هر نفر چند کیک می رسد ؟

۲۷ ÷ ۹ = ۳ نفر

* * * * * * * * * * * * * * * * * * * *

۱۳- زهرا ۸ سال و مادرش ۳۲ سال دارد. سن مادر زهرا چند برابر سن اوست ؟

۳۲ ÷ ۸ = ۴

۱۴ – دو خط موازی رسم کنید .

* * * * * * * * * * * * * * * * * * * *

امید های آینده موفقیت و سربلندی شما آرزوی همیشگی ماست .

بازخورد معلم :

amoozeshmelli.com